Вариант ОГЭ по истории 2020 для Антонова Егора 9А, Старыгина Алексея 9Б, Киричек Екатерины 9Б

1. Установите соответствие между событиями и годами: к каждой позиции первого столбца подберите соответствующую позицию из второго столбца.

СОБЫТИЯ	ГОДЫ
А) заключение Андрусовского перемирия	1) 862 г.
Б) первое упоминание о Москве в Ипатьевской летописи	2) 1147 г.
	3) 1618 г.
В) восстание декабристов	4) 1667 г.
	5) 1825 г.

Запишите в таблицу выбранные цифры под соответствующими буквами:

А	Б	В

2. Расположите в хронологическом порядке следующие события. Укажите ответ в виде последовательности цифр выбранных элементов.

1) взятие Азова русскими войсками под командованием А.С. Шеина
2) присоединение Крыма к России
3) Чесменское сражение
4) переход русской армии под командованием А.В. Суворова через Альпы

3. Запишите термин, о котором идёт речь.

Древнерусская ювелирная техника, в которой ювелирные изделия украшаются с помощью маленьких шариков из золота или серебра.

4. Какие события относятся ко времени правления Ивана IV? Найдитев приведённом ниже списке два события и запишите цифры, под которыми они указаны.

1) присоединение Поволжья к России
2) принятие Соборного уложения
3) присоединение Пскова к Москве
4) введение заповедных лет
5) объединение Украины с Россией

5. Ниже приведён перечень терминов(названий). Все они, за исключением одного, относятся к событиям (явлениям) истории России периода 1894–1914 гг.

1) Государственная дума;
2) выкупные платежи;
3) отруб;
4) приписные крестьяне;
5) дворянство.

Найдите и запишите порядковый номер термина, «выпадающего» из данного ряда.

6. Прочитайте четыре предложения. Два из них являются тезисами (положениями, которые требуется аргументировать). Другие два содержат факты, которые могут послужить для аргументации этих тезисов. Подберите для каждого из тезисов соответствующий ему факт. Номера соответствующих предложений запишите в таблицу.

1) Важной целью политики Петра I было обеспечение для России выхода к Балтийскому морю.
2) Прутский поход окончился тяжёлым поражением.
3) Россия была вынуждена отдать Османской Империи крепость Азов.
4) В 1703 году на берегу Финского залива был основан Санкт-Петербург.

Ответ:

Номер предложения, содержащего			
тезис 1	факт 1	тезис 2	факт 2

7. Используя данные статистической таблицы, завершите представленные ниже суждения, соотнеся их начала и варианты завершения.

Государственные доходы и расходы Российской империи в период с 1908 по 1912 г. (в млн золотых рублей)

Годы	1908	1909	1910	1911	1912
Доходы	2.418	2.526	2.781	2.952	3.104
Расходы	2.388	2.451	2.473	2.536	2.669

НАЧАЛО СУЖДЕНИЯ

А) Наименьшее превышение доходов над расходами было отмечено

Б) Государственные расходы Российской империи впервые превысили сумму в 2.500 млн золотых рублей в

В) Государственные доходы в 1908–1912 гг.

ВАРИАНТЫ ЗАВЕРШЕНИЯ СУЖДЕНИЯ

1) в 1908 г.
2) в 1909 г.
3) в 1911 г.
4) постоянно росли
5) как повышались, так и снижались

Запишите в ответ цифры, расположив их в порядке, соответствующем буквам:

А	Б	В

8. Укажите век, когда произошли события, обозначенные на схеме. Ответ запишите словом.

Рассмотрите схему и выполните задания 8−10

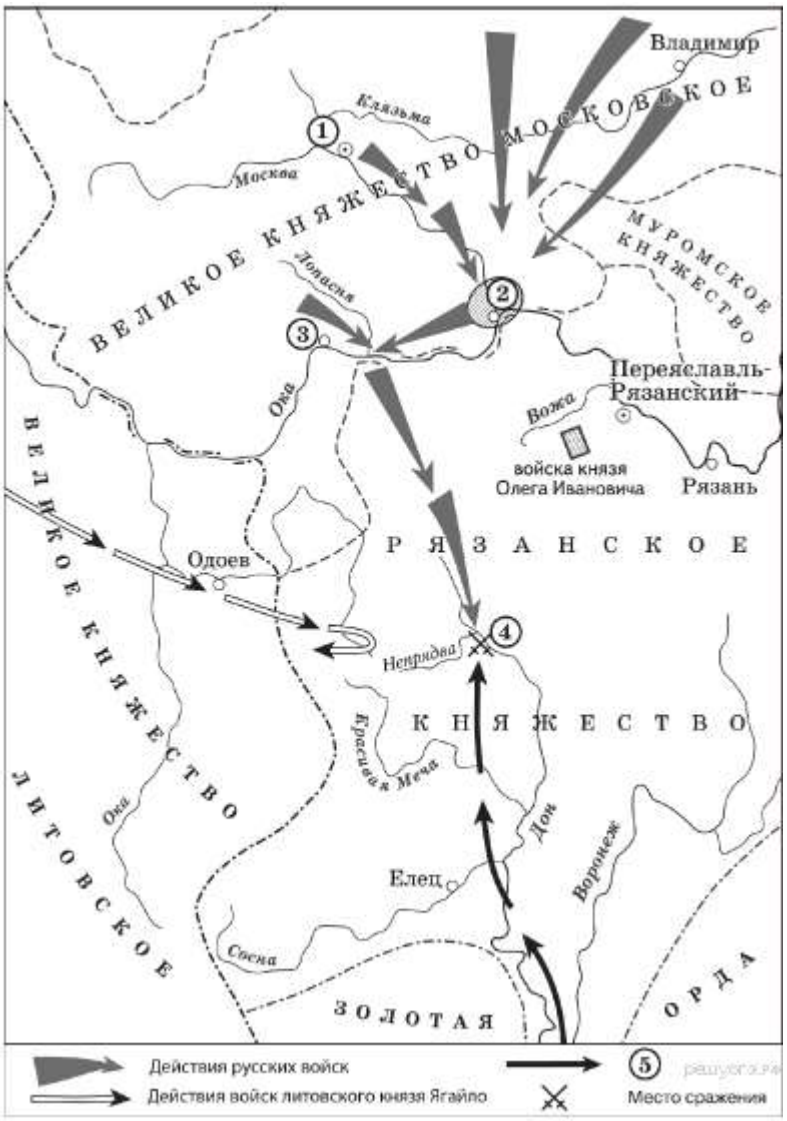

9. Назовите военачальника, командующего войском, поход которого обозначен в легенде схемы цифрой «5». В ответе укажите только имя военачальника.

10. Прочитайте отрывок из сочинения историка и укажите цифру, обозначающую на схеме город, название которого пропущено в данном отрывке.

«Московский князь призвал всех головы свои положить за землю русскую. Местом сбора русских войск был назначен город _____. 25 августа великий князь московский прибыл в этот город. Его встретили на берегу реки Северки, притоке Москвы-реки. На утро следующего дня было приказано всем воеводам с войсками выехать за город на Девичье поле. Здесь состоялся смотр русских войск перед походом. После совета воевод русские полки 26 августа оставили город и пошли к верховьям Дона».

11. Рассмотрите изображение и выполните задание.

Какое событие произошло в то же десятилетие, что и событие, в память о котором выпущена данная монета?

1) избрание царём Михаила Романова
2) начало Смоленской войны
3) поход Лжедмитрия I на Москву
4) Медный бунт

12. Запишите имя, пропущенное в схеме.

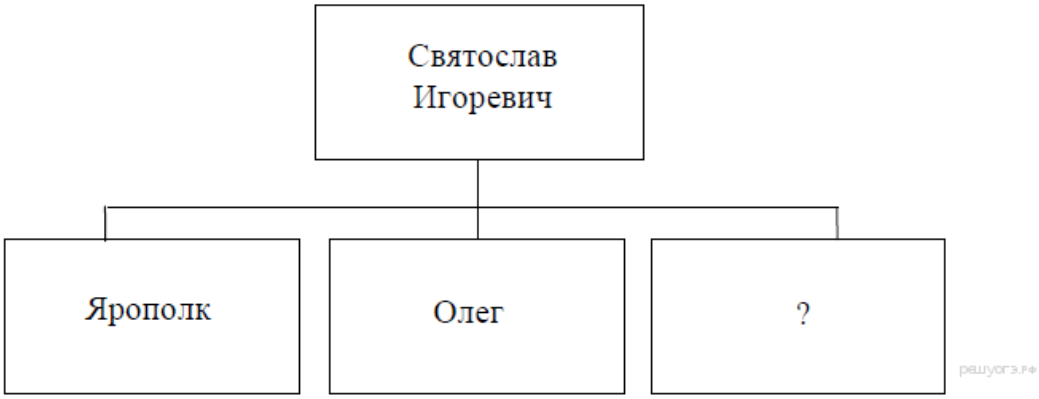

13. Какие из представленных памятников культуры были созданы в память о Куликовской битве? Выберите два памятника культуры и запишите в таблицу цифры, под которыми они указаны.

1) «Задонщина»
2) «Сказание о Мамаевом побоище»
3) «Слово о полку Игореве»

4)

5)

14. Какой памятник культуры связан с деятельностью князя Андрея Боголюбского? Укажите порядковый номер этого памятника культуры.

15. Напишите название периода в отечественной истории, к которому относятся описываемые в тексте события. Укажите век, к которому относятся описываемые в тексте события.

Прочитайте фрагмент исторического источника и выполните задания 15–17. Используйте в ответах информацию текста, а также знания из курса истории.

Из записок иностранца

«В 6 утра… Димитрий Иоаннович был бесчеловечно умерщвлён и в то же время было перебито, как полагают, 1705 поляков… Пётр Фёдорович Басманов был убит в сенях перед царскими покоями… [Их тела] поволокли… до народной площади... Там они были… около трёх дней, до избрания царём начальника заговора…

Некоторое время спустя после по избрании [царя] восстали пять или шесть главных городов в пределах Татарии: мятежники схватили воевод и побили часть войска и гарнизоны; впрочем ещё до отъезда моего, в июле месяце, раскаялись и получили из Москвы прощение, оправдавшись тем, что они были обмануты молвою о спасении царевича Димитрия. В то же время в Москве был большой раздор среди знатных, негодовавших на избрание [царя] без их согласия и утверждения; [царь] едва не был низложен. Наконец, все успокоилось, и [царь] был коронован.

После венчания, опять возникли тайные козни против царя, в пользу (как я думаю) князя Фёдора Ивановича Милославского, представителя самого знатного русского рода, за которого при избрании подавались голоса, и если бы представители страны были собраны, то он был бы избран. Впрочем, он, как говорят, отказался от короны…

[Царь] вновь подвергался опасности во время перенесения в Москву тела истинного Димитрия, умерщвлённого, как гласит молва, 17 лет назад; когда царь вместе с патриархом и духовенством вышли навстречу за город. Как говорят, [царя] хотели побить камнями, но бояре усмирили народ прежде, чем собралась большая толпа.

В то же время открылся бунт в княжестве Северском…: 7 или 8 000 человек взялись за оружие, утверждая, что Димитрий жив. Но так как мятежники не имели предводителей, то были разбиты… Избегнувшие поражения удалились в Путивль, один из главных городов Северской области. Говорят, что и этот город покорился и что виновниками восстания были поляки, рассыпанные в пределах России и Подолии: они распустили молву, что Димитрий жив и находится в Польше».

16. Какие причины выступлений, недовольства против нового царя указываются в тексте? Приведите три причины.

17. Привлекая исторические знания, приведите две причины, по которым москвичи поддержали заговор, об успехе которого говорится в тексте. Приведите одно положение о том, чем закончилось царствование, о начале которого говорится в тексте.

18. Что из перечисленного стало одной из причин (предпосылок) проведения военной реформы под руководством Д. А. Милютина?

— Отечественная война 1812 г. и Заграничные походы русской армии
— Крымская война
— деятельность народников
— Русско−Турецкая война 1877−1878 гг.

Объясните, как выбранное Вами положение связано с проведением военной реформы под руководством Д. А. Милютина?

19. Прочитайте текст, который содержит две фактические ошибки.

В середине XVII века патриархом всея Руси становится Филарет. Он принимает решение унифицировать и исправить все богослужебные книги по старорусским образцам. С его решением не согласилась часть духовенства и мирян, которые отказались подчиняться его воле и ушли в раскол. Одним из лидеров раскольников был протопоп Аввакум.

Найдите фактические ошибки и исправьте их. Ответ оформите следующим образом (обязательно заполните обе колонки таблицы).

Положение текста, в котором допущена ошибка	**Исправленное положение текста**
1)	
2)	

20. Существует точка зрения, что, несмотря на существенные различия, обусловленные временным фактором, в политике Ивана IV и Петра I имелись общие черты. Приведите не менее двух фактов, положений, подтверждающих эту общность.

21. Стойко бились русские воины, но враг наступал. Выбрав удачный момент, засадный полк, которым командовали князья Владимир Андреевич Серпуховской и Дмитрий Михайлович Боброк-Волынский, обрушился на ордынцев. Вскоре и остальные полки московского князя перешли в наступление и разгромили Мамая.

1) Укажите век, когда произошли описанные события.
2) Назовите московского князя, о котором идёт речь.

Вариант огэ 2020

1. Установите соответствие между событиями и годами: к каждой позиции первого столбца подберите соответствующую позицию из второго столбца.

СОБЫТИЯ	ГОДЫ
А) вхождение Крыма в состав Российской империи	1) 988 г. 2) 1147 г.
Б) первое упоминание Москвы в летописи	3) 1565 г.
В) введение опричнины	4) 1783 г. 5) 1861 г.

Запишите в таблицу выбранные цифры под соответствующими буквами:

А	Б	В

2. Расположите в хронологическом порядке следующие события. Укажите ответ в виде последовательности цифр выбранных элементов:

1) церковный раскол
2) создание Святейшего Синода
3) присоединение Крыма к России
4) создание стрелецкого войска

3. Запишите термин, о котором идёт речь.

Выборный суд, появившийся в ходе судебной реформы 1864 г. для разбора малозначительных дел и рассмотрения мелких гражданских исков.

4. Что из названного относится к событиям русско-японской войны 1904–1905 гг.? Укажите два верных положения и запишите цифры, под которыми они указаны.

1) бои у оз. Хасан
2) осада Плевны
3) оборона Порт-Артура
4) Цусимский бой
5) оборона Шипки

5. Ниже приведён перечень терминов(названий). Все они, за исключением одного, относятся к событиям, явлениям истории России эпохи дворцовых переворотов.

1) акт о престолонаследии;
2) временнообязанные крестьяне;
3) гвардейские полки;
4) коллегии;
5) Святейший Синод.

Найдите и запишите порядковый номер термина, «выпадающего» из данного ряда.

6. Прочитайте четыре предложения. Два из них являются тезисами (положениями, которые требуется аргументировать). Другие два содержат факты, которые могут послужить для аргументации этих тезисов. Подберите для каждого из тезисов соответствующий ему факт. Номера соответствующих предложений запишите в таблицу.

1) При Иване IV Россия вела активную внешнюю политику в восточном направлении.
2) Политика опричнины, проводимая Иваном IV, была губительна для страны.
3) Многие центральные уезды России были разорены.
4) Русские войска взяли Казань.

Ответ:

Номер предложения, содержащего			
тезис 1	факт 1	тезис 2	факт 2

7. Используя данные статистической таблицы, завершите представленные ниже суждения, соотнеся их начала и варианты завершения.

Сумма налогов на одного жителя (в руб.) в 1914 г.

Страны	**Россия**	**Австрия**	**Франция**	**Германия**	**Англия**

Налоги прямые	3,11	10,19	12,25	12,97	26,75
Налоги косвенные	5,98	11,28	10,00	9,64	15,86

НАЧАЛО СУЖДЕНИЯ	ВАРИАНТЫ ЗАВЕРШЕНИЯ СУЖДЕНИЯ
А) Из стран, представленных в таблице, преобладание косвенных налогов над прямыми наблюдалось	1) только в России
Б) Общая сумма налогов в России была более чем в 4 раза меньше, чем	2) в России и Австрии
В) Наименьшая разница между суммами прямых и косвенных налогов была	3) в Германии
	4) в Англии
	5) в Австрии

Запишите в ответ цифры, расположив их в порядке, соответствующем буквам:

А	Б	В

8. Укажите век, когда произошли события, обозначенные на схеме стрелками. Ответ запишите словом.

Рассмотрите схему и выполните задания 8–10

9. Назовите военачальника (государя), командующего войском, поход которого обозначен буквой «А» на схеме. В ответе укажите его имя и порядковый номер (например, Иван Первый).

10. Прочитайте отрывок из сочинения историка и укажите цифру, обозначающую на схеме город, рядом с которым произошли описанные события.

«Решающее сражение произошло на реке Шелони. Ополчение, имея значительное превосходство в силах, сражалось неохотно; москвичи же, по словам близких к Москве летописцев, «как львы рыкающие», набросились на противника и более 20 вёрст преследовали отступающих».

11. Рассмотрите изображение и выполните задание.

Какое событие произошло при жизни деятеля культуры, которому посвящена данная монета?

1) начало Крымской войны
2) подавление российскими войсками революции в Венгрии
3) создание III отделения императорской канцелярии
4) открытие железной дороги Санкт-Петербург — Москва

12. Заполните пропуск в схеме.

13. Какие памятники культуры из представленных были созданы во время правления Ивана IV Грозного? Укажите номера, под которыми они обозначены.

1) «Слово о полку Игореве»
2) «Сказание о великом князе Московском»
3) «Поучение детям»

4)



5)

14. Укажите номер, которым обозначен памятник культуры, посвящённый походу Новгород-Северского князя на половцев.

15. Какое название в отечественной истории получил период, события которого описываются в тексте? К какому веку относятся эти события?

Прочитайте фрагмент исторического источника и выполните задания 15–17. Используйте в ответах информацию текста, а также знания из курса истории.

Из записок И. Массы

«Меж тем мятежники были искусными воителями и побивали посылаемые против них войска точно так же, как во время вступления Димитрия в пределы Московии, и счастье всегда сопутствовало им...

Да и они …переманили на свою сторону многих, также перебежали к ним многие из московских ратников, как немцы и ливонцы, так и русские…

Также находился в войске мятежников некий человек, коего звали Иван Исаевич Болотников; он был в Москве крепостным человеком боярина Андрея Телятевского, но бежал от своего господина, сперва отправился в степь к казакам, а также служил в Венгрии и Турции, и пришёл с казаками числом до десяти тысяч на помощь к этим мятежникам, и он был детина рослый и дюжий, родом из Московии, удалец, отважен и храбр на войне, и [мятежники] выбрали его главным атаманом или предводителем своего войска. И этот Болотников пошёл со всем своим войском на Серпухов, лежащий в восемнадцати милях от Москвы, и сразу занял его, а также Коломну, город при реке Москве неподалёку от Оки, и стал станом против московского войска в двенадцати милях от Москвы…

Жители города Москвы послали в лагерь к Болотникову такое требование: если тот Димитрий, который прежде был в Москве, жив и находится у него в лагере или где-либо в ином месте, то пусть Болотников покажет его или призовёт его к себе, чтобы они увидели его собственными глазами. Если это произойдёт, они перед Димитрием смирятся, будут умолять о прощении и милости и сдадутся ему без сопротивления.

Болотников ответил, что Димитрий действительно живёт в Польше и скоро будет здесь. Он сказал также: «Я у него был, и он сам лично назначил меня вместо себя старшим военачальником и отправил в Путивль с письменным распоряжением». Московиты сказали: «Это несомненно другой, мы того Димитрия убили» — и стали уговаривать Болотникова, чтобы он перестал проливать невинную кровь и сдался царю…, а тот сделает его большим человеком».

16. Какие преимущества мятежников, позволявшие им одерживать победы, указываются в тексте? Укажите три преимущества.

17. Каков был итог восстания, о событиях которого идёт речь в тексте? Назовите один итог. Привлекая исторические знания, назовите две причины такого итога.

18. Что из перечисленного стало одной из причин (предпосылок) Медного бунта 1662 г.?
— рост косвенных налогов
— ухудшение положения казаков
— денежная реформа Алексея Михайловича
— принятие Соборного Уложения

Объясните, как выбранное Вами положение связано с Медным бунтом 1662 г.?

19. Прочитайте текст, который содержит две фактические ошибки.

Павел Первый принял за свое правление несколько важнейших нормативных актов. Один из них — «Манифест о трехдневной барщине». Согласно нему помещикам рекомендовалось ограничить барщину тремя днями в неделю. Кроме того, при Павле I Россия вела участие в войне в составе Второй антифранцузской коалиции против Наполеона. Во главе русской армии находился М.И. Кутузов. Он провел два успешных похода — Итальянский и Шведский. Однако в результате противоречий между австрийским и русским командованием Вторая коалиция распалась и Павел I начал сближаться с Наполеоном.

Найдите фактические ошибки и исправьте их. Ответ оформите следующим образом (обязательно заполните обе колонки таблицы).

Положение текста, в котором допущена ошибка	**Исправленное положение текста**
1)	
2)	

20. Существует точка зрения, что ханы Золотой Орды невольно способствовали объединению русских земель. Приведите не менее двух фактов, аргументов, подтверждающих эту точку зрения.

21. В феврале 1730 г. российская императрица в присутствии приближенных надорвала подписанные ею ранее бумаги, которые ограничивали её права. Так провалилась попытка ограничения самодержавия.

1) Укажите имя императрицы, упомянутой в описании исторической ситуации.
2) Укажите название документа, о котором идёт речь.
3) Почему попытка ограничения монархии в России в 1730 г. потерпела не